第二周第 1 课时 课后作业

1．已知函数 $f(x)=\sin x+\sqrt{3}\cos x$，把函数 $f(x)$ 的图象向右平移 $\frac{\pi}{6}$ 个单位，再把图象上各点的横坐标缩小到原来的一半，纵坐标不变，得到函数 $g(x)$ 的图象，当 $x\in\left[0,\frac{\pi}{2}\right]$ 时，方程 $g(x)-k=0$ 恰有两个不同的实根，则实数 k 的取值范围为（　　）

A． $[1,\sqrt{3}]$　　**B．** $[1,2)$　　**C．** $(-2,0)\cup(0,2)$　　**D．** $[\sqrt{3},2)$

2．已知函数 $f\left(x\right)=2\cos^2\left(2x+\frac{\pi}{6}\right)+\sqrt{3}\sin\left(4x+\frac{\pi}{3}\right)$，则下列判断错误的是（　）

A． $f\left(x\right)$ **为偶函数**　　**B．** $f\left(x\right)$ **的图像关于直线** $x=\frac{\pi}{4}$ **对称**

C． $f\left(x\right)$ **的值域为** $\left[-1,3\right]$　　**D．** $f\left(x\right)$ **的图像关于点** $\left(-\frac{\pi}{8},0\right)$ **对称**

3．已知函数 $y=\sin ax+b(a>0)$ 的图象如图所示，则函数 $y=\log_a(x+b)$ 的图象可能是（　　）

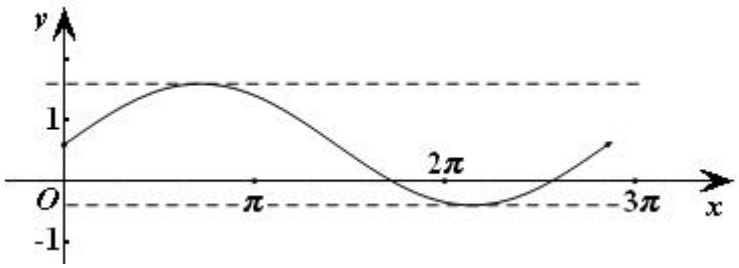

A． 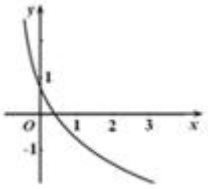 　B． 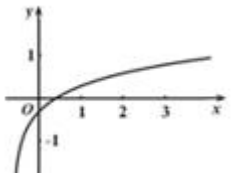 　C． 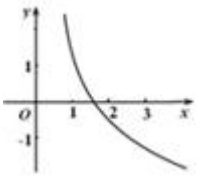 　D． 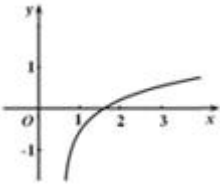

4．已知函数 $f\left(x\right)=\sin2x+\sqrt{3}\cos2x$，给出下列四个结论：

①函数 $f\left(x\right)$ 的最小正周期是 π

②函数 $f\left(x\right)$ 在区间 $\left[-\frac{\pi}{6},\frac{\pi}{3}\right]$ 上是减函数

③函数 $f\left(x\right)$ 的图像关于点 $\left(\frac{\pi}{3},0\right)$ 对称

④函数 $f\left(x\right)$ 的图像可由函数 $y=2\sin2x$ 的图像向左平移 $\frac{\pi}{3}$ 个单位得到

其中正确结论的个数是（ ）

A．1　　**B**．2　　**C**．3　　**D**．4

5．函数 $y=\cos\left(\pi x-\frac{\pi}{4}\right)$ 的单调递增区间是（　　）

A．$\left[2k-\frac{1}{4},2k+\frac{3}{4}\right](k\in\mathbf{Z})$　　**B**．$\left[2k+\frac{3}{4},2k+\frac{7}{4}\right](k\in\mathbf{Z})$

C．$\left[2k-\frac{3}{4},2k+\frac{1}{4}\right](k\in\mathbf{Z})$　　**D**．$\left[2k+\frac{1}{4},2k+\frac{5}{4}\right](k\in\mathbf{Z})$

6．已知函数 $f\left(x\right)=2\sin x[\cos(x-\frac{\pi}{3})+\cos x]$，则函数 $f\left(x\right)$ 的最小正周期是（　　）

A．$\frac{\pi}{2}$　　**B**．π　　**C**．2π　　**D**．4π

7．下列函数中最小正周期为 π 的是（　　）

A．$y=\sin|x|$　　**B**．$y=1+\sin x$　　**C**．$y=|\cos x|$　　**D**．$y=\tan 2x$

8．函数 $f(x)=\sqrt{4\sin x\cos x-1}$ 的定义域是（　）

A．$\left[2k\pi+\frac{\pi}{6},2k\pi+\frac{\pi}{3}\right](k\in Z)$　　**B**．$\left[k\pi+\frac{\pi}{6},k\pi+\frac{\pi}{3}\right](k\in Z)$

C．$\left[2k\pi+\frac{\pi}{12},2k\pi+\frac{5\pi}{12}\right](k\in Z)$　　**D**．$\left[k\pi+\frac{\pi}{12},k\pi+\frac{5\pi}{12}\right](k\in Z)$

9．当 $x\in\left[0,\frac{\pi}{2}\right]$ 时，函数 $f(x)=\sin 2x-2\sqrt{3}\sin\left(\frac{\pi}{4}-x\right)\sin\left(\frac{\pi}{4}+x\right)$ 的值域是（　　）

A．$[-\sqrt{3},\sqrt{3}]$　　**B**．$[-1,\sqrt{3}]$　　**C**．$[-\sqrt{3},2]$　　**D**．$[-1,2]$

10．最小正周期为 π，且图象关于直线 $x=\frac{\pi}{3}$ 对称的一个函数是（　　）

A．$y=\sin\left(\frac{x}{2}+\frac{\pi}{6}\right)$　　**B**．$y=\sin\left(2x+\frac{\pi}{6}\right)$

C．$y=\cos\left(2x-\frac{\pi}{6}\right)$　　**D**．$y=\sin\left(2x-\frac{\pi}{6}\right)$